SOLUCIONARIO SEMANA 30 DE MARZO AL 3 DE ABRIL

Gráficos de barras

1 Observa el gráfico y contesta.

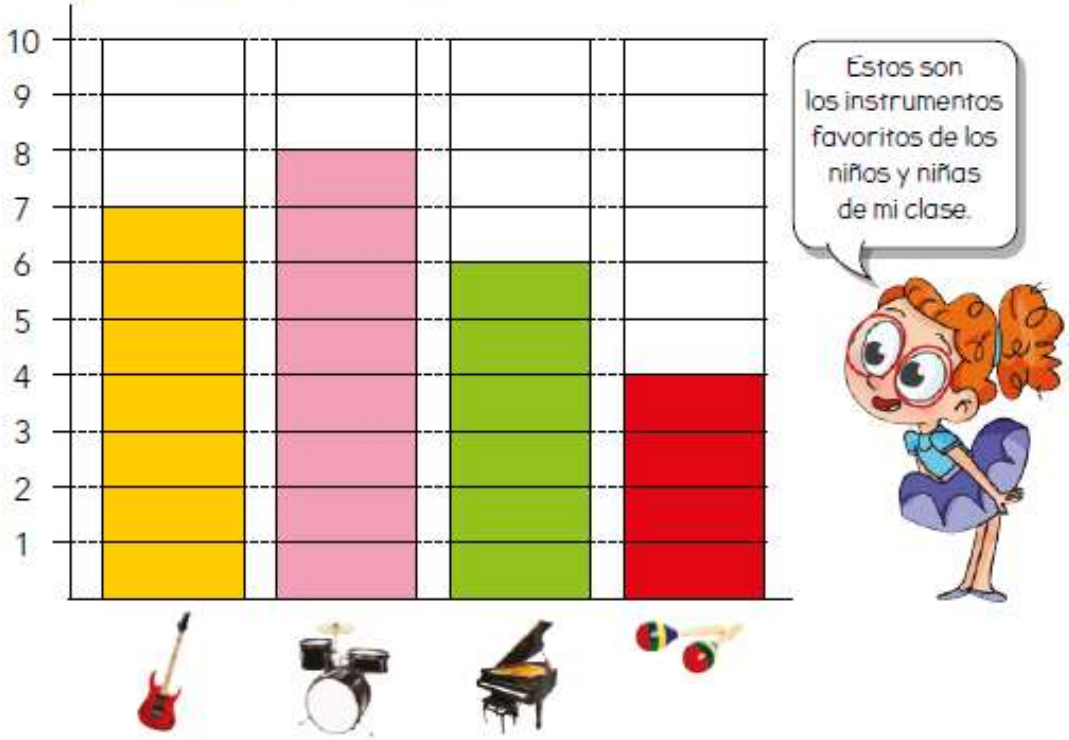

¿A cuántas personas de mi clase les gusta cada instrumento?

¿Cuál es el instrumento favorito de la clase?

La batería

¿Cuál es el que gusta menos?

Las maracas

Interpretación compartida

2 Cuenta, escribe y representa los datos.

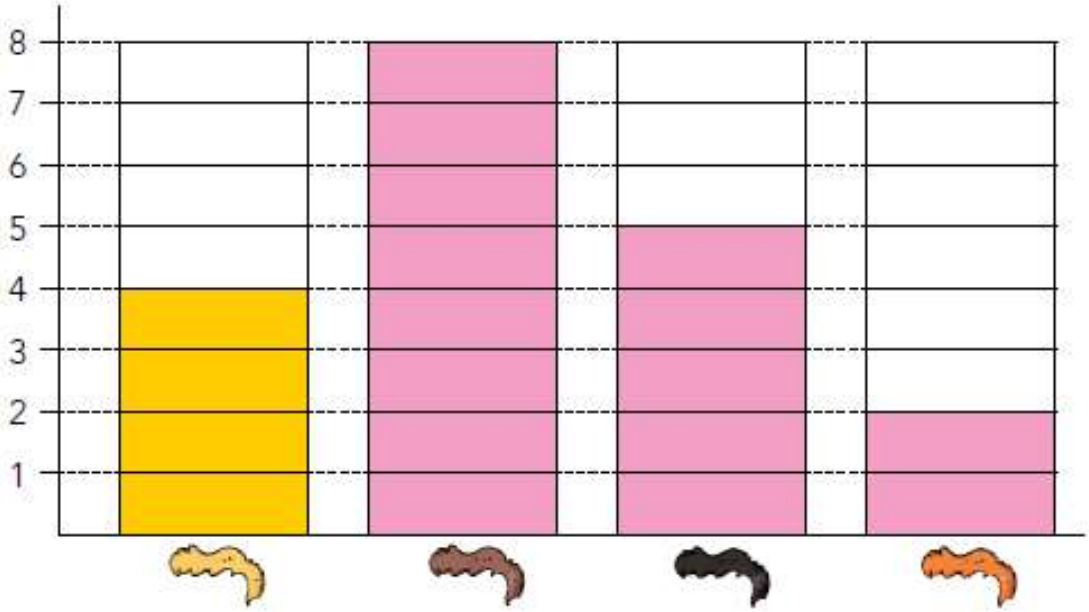

3 Completa.

Hay 3 más que .

Hay 2 menos que .

Hay 6 más que .

Resuelvo problemas

Comprobamos

1 ¿Cuántos puntos ha conseguido el equipo azul?

Una persona ha conseguido 48 puntos.

La otra persona ha conseguido 29 puntos.

▶ El equipo azul ha conseguido 77 puntos.

	1	
	4	8
+	2	9
	7	7

2 ¿Cuántos disfraces de animales hay?

En un perchero hay 16 disfraces.

En el otro, 21 disfraces.

▶ En total hay 37 disfraces de animales.

	1	6
+	2	1
	3	7

anayaeducacion.es Practica más problemas en el banco de recursos.

En voz alta

3 Observa los gráficos y explica si alguno representa esta información.

raqueta	cinta de gimnasia rítmica	balón de fútbol
4	5	6

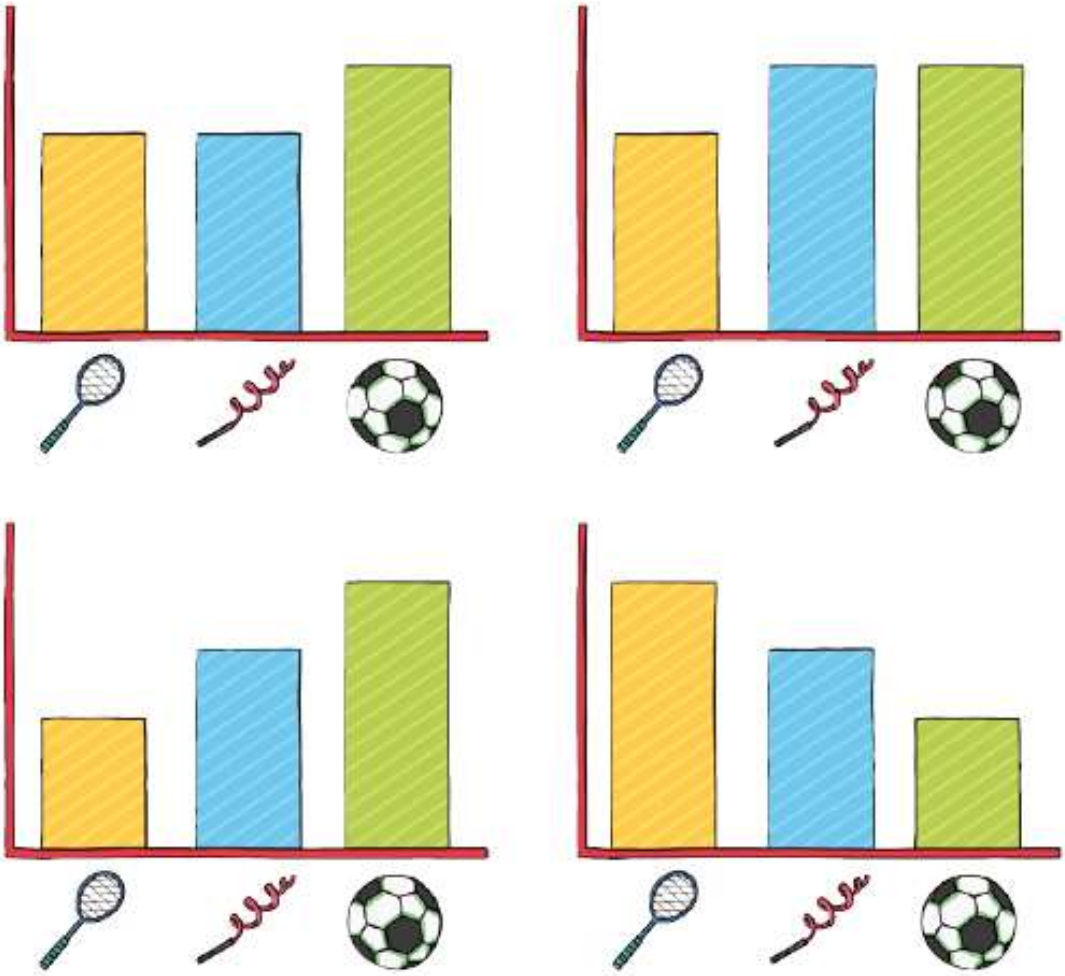

Zona razona

A la fiesta de disfraces hay que llevar algo rojo y llevar algo en la cabeza.

¿Quién se ha equivocado de disfraz? Resuelve en pareja y rodea.

Organizo mi mente

Completa.

Para sumar 26 + 48

1. Coloco los números.

	D	U
	2	6
+	4	8

2. Sumo las... unidades

	D	U
	2	6
+	4	8
		14

3. Cambio 10 unidades por 1 decena.

	D	U
	2	6
+	4	8
		14

4. Sumo las... decenas

	D	U
	2	6
+	4	8
	7	4

Colecciono palabras

Ordena las letras y encuentra las palabras matemáticas escondidas.

Qué he aprendido

1 Resuelve estas sumas.

1 + 2 + 3 = 6 5 + 5 + 5 = 15 2 + 4 + 6 = 12

2 Calcula.

(1)	(1)	(1)	(1)	(1)
19	25	42	16	37
+ 67	+ 56	+ 18	+ 56	+ 33
86	81	60	72	70

3 ¿Cuáles de estas figuras pueden rodar? Rodéalas.



4 Jorge ha horneado 7 galletas de chocolate, 2 de fresa y 6 de manzana. ¿Cuántas galletas ha hecho en total?

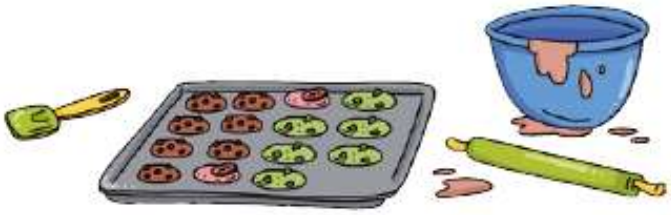

chocolate 7
fresa 2
manzana + 6
15

▶ Ha hecho 15 galletas en total.